Hvem har flest?

0. klasse · Tal og algebra · Flere, færre og lige mange

Navn: _____ Klasse: _____

Husk: Læg dem parvis, én fra hver side. Den side, der har nogen tilbage, har flest.

Eksempel: Hvor er der flest?

Se på de to bokse.



• Tæl: Der er 6 i den første boks og 4 i den anden.
• Par dem: 2 prikker får ingen makker. 6 er flere end 4.
Svar: Der er flest i den første boks.

Del A · Øv dig ★☆☆

Se på boksene. Tæl, hvis du vil.

A1. Sæt ring om den boks, der har **flest**.

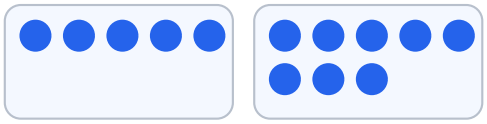

A2. Sæt ring om den boks, der har **flest**.

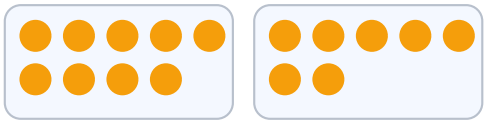

A3. Sæt kryds ved den boks, der har **færrest**.



Del B · Brug det ★★☆

Tegn og sæt ring.

B1. Tegn **lige mange** prikker i den tomme boks.



B2. Er der lige mange hjerter og stjerner? Sæt ring om JA eller NEJ.

JA **NEJ**



B3. Hver kasse skal have én bold. Tegn en streg fra hver kasse til en bold. Er der bolde nok? Sæt ring.

JA **NEJ**

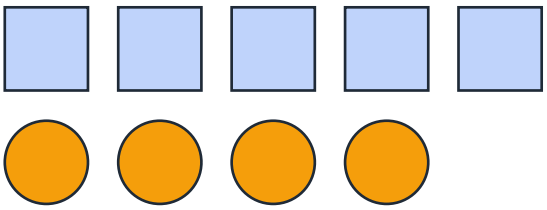

Del C · Udfordring ★★★

C1. Tegn **flere** prikker end i den første boks, men **færre** end i den sidste.



C2. Gør det lige mange: Tegn de prikker, der mangler.



C3. Ida har 4 klodser. Noah har 2 **flere** end Ida. Tegn Noahs klodser i den tomme boks.



Se forklaringen som video: Find emnet på **mattenemt.dk** under dit klassetrin.

© 2026 Mattenemt.dk. Må kopieres til brug i egen undervisning.