Find formerne

0. klasse · Geometri og måling · Former omkring os

Navn: _____ Klasse: _____

Husk: Trekant: 3 hjørner. Firkant: 4 hjørner. Cirkel: 0 hjørner.

Eksempel: Hvilken form er det?

Se på formerne. Tæl hjørnerne.

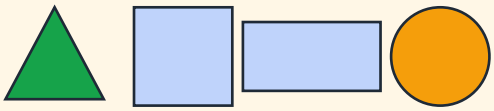

- Trekanten har 3 hjørner. Begge firkanter har 4 hjørner.
- Cirklen er rund. Den har ingen hjørner.

Svar: Trekant, firkant, firkant og cirkel.

Del A · Øv dig ★☆☆

Lyt til læreren. Sæt ring og farv.

A1. Sæt ring om alle **trekanter**.



A2. Farv alle **cirkler** røde.



A3. Farv alle **firkanter** blå.



Del B · Brug det ★★☆

Tæl formerne. Skriv tallet i skemaet.

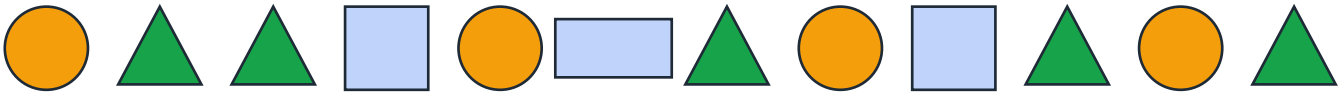

Cirkler	Trekanter	Firkanter

B1. Tegn en trekant og en firkant i gitteret.

Del C · Udfordring ★★★

C1. Hvor mange hjørner har formen? Skriv tallet inde i formen.

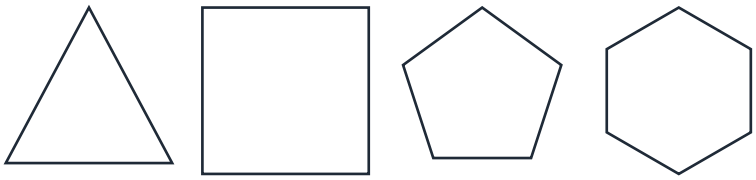

C2. Hvor mange trekanter kan du finde i firkanten? _____

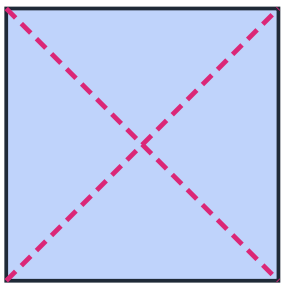

C3. Tegn en ting fra klassen, der er **rund**. Tegn en ting, der er **firkantet**.

Se forklaringen som video: Find emnet på **mattenemt.dk** under dit klassetrin.

© 2026 Mattenemt.dk. Må kopieres til brug i egen undervisning.