Tal og prikker til 10

Brug tierrammen. Tæl, eller se 5 og lidt mere.

Eksempel

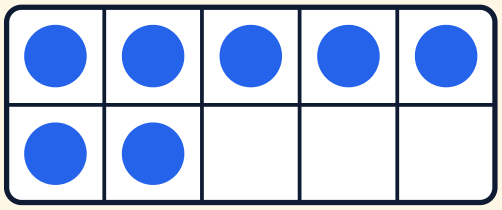

Der er 5 prikker øverst og 2 nederst.

5 og 2 er **7**.

1. Hvor mange prikker? Skriv tallet.

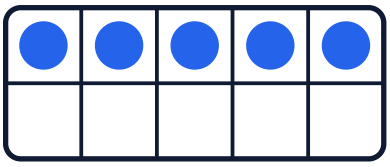

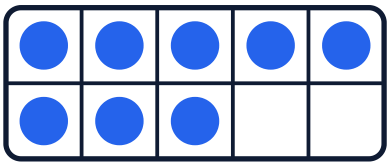

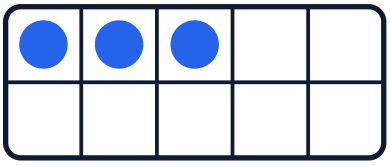

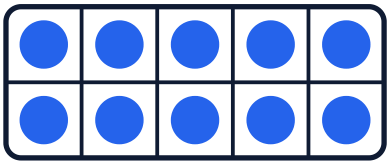

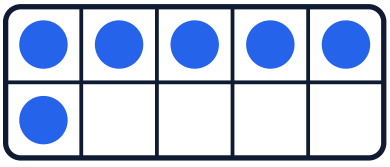

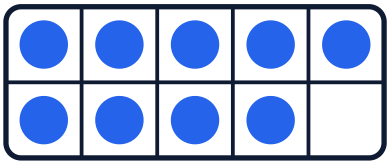

2. Tegn prikkerne.

4

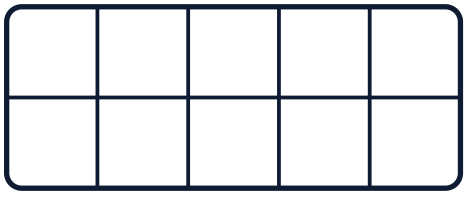

7

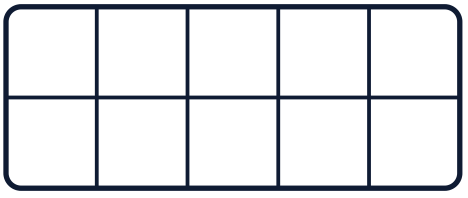

Når du er færdig: Farv stjernen. ☆ Det klarede du!

© 2026 Mattenemt.dk · Må kopieres til undervisning

5 og lidt mere

En tierramme har 10 pladser. 5 øverst og 5 nederst.

Eksempel

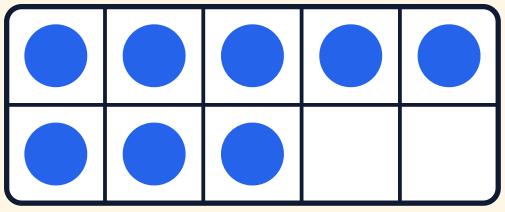

8 er 5 og 3.
Der mangler 2 til 10.

Skriv de to tal. Hvor mange mangler til 10?

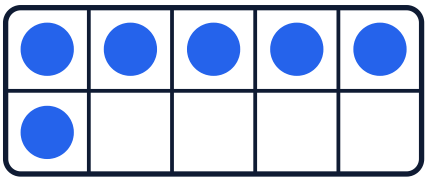

6 er _____ og _____
Der mangler _____ til 10.

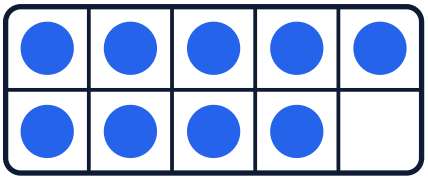

9 er _____ og _____
Der mangler _____ til 10.

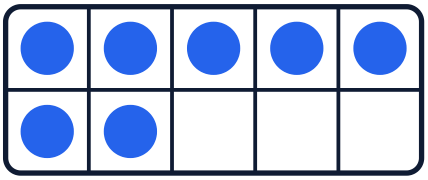

7 er _____ og _____
Der mangler _____ til 10.

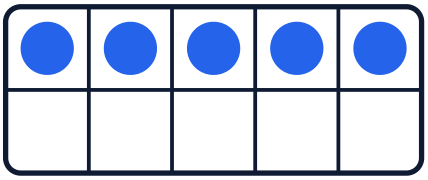

5 er _____ og _____
Der mangler _____ til 10.

Når du er færdig: Farv stjernen. ☆ Det klarede du!

© 2026 Mattenemt.dk · Må kopieres til undervisning

Tal til 20

10 og lidt mere. Brug to tierrammer.

Eksempel

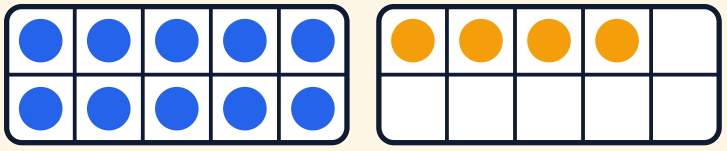

Én fuld ramme er 10.
10 og 4 er **14**.

1. Hvor mange prikker? Skriv tallet.

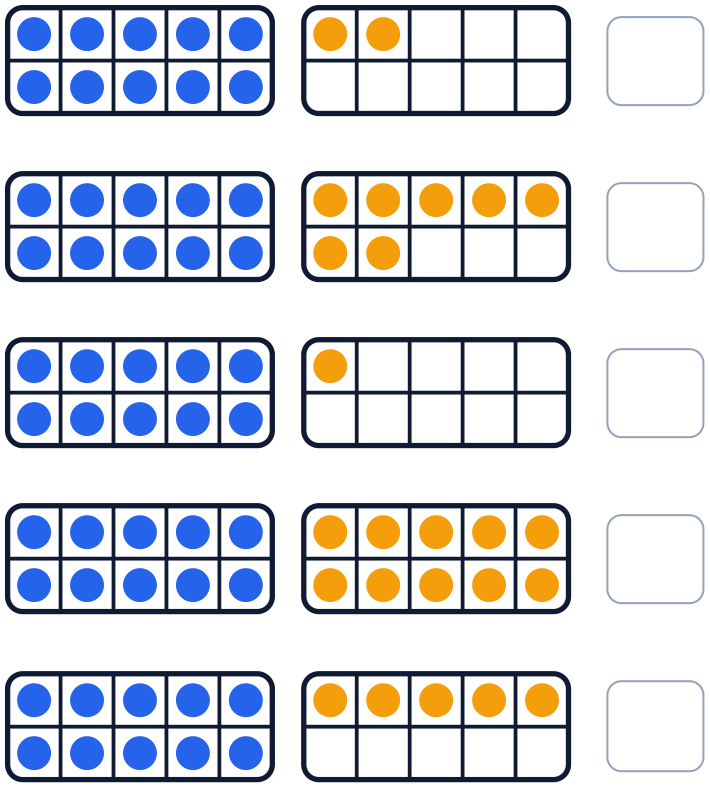

2. Tegn prikkerne. Fyld den første ramme først.

13

18

Når du er færdig: Farv stjernen. ☆ Det klarede du!

© 2026 Mattenemt.dk · Må kopieres til undervisning

Tallinjen fra 0 til 20

Tallene står i rækkefølge. Til højre bliver tallene større.

Eksempel



12 står her. 1 mere er 13. 1 mindre er 11.

1. Skriv de tal, der mangler.

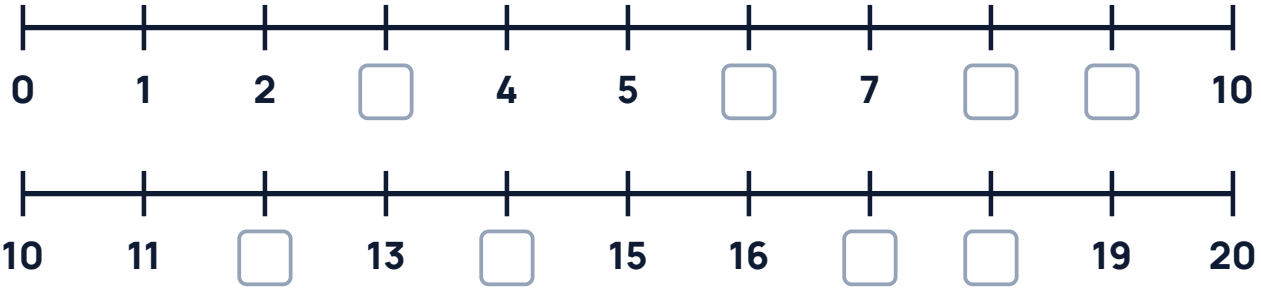

2. Hvad er 1 mindre og 1 mere?

☐ **9** ☐ ☐ **15** ☐ ☐ **19** ☐

☐ **10** ☐

Når du er færdig: Farv stjernen. ☆ Det klarede du!

© 2026 Mattenemt.dk · Må kopieres til undervisning

Hvad er størst?

Tænk på tierrammen eller tallinjen.

Eksempel

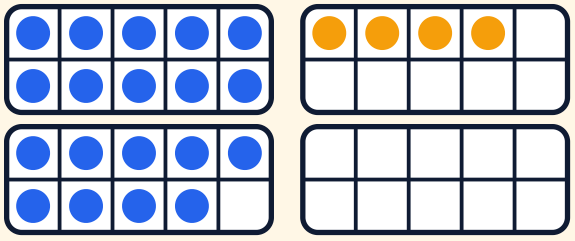

14

9

14 er 10 og 4. 9 er mindre end 10. Derfor er 14 størst.

1. Sæt ring om det største tal.

8 12	17 7	15 16	20 19

2. Skriv tallene i rækkefølge. Start med det mindste.

11 6 18 → ☐ ☐ ☐

14 4 9 → ☐ ☐ ☐

Når du er færdig: Farv stjernen. ☆ Det klarede du!

© 2026 Mattenemt.dk · Må kopieres til undervisning