✂ Klip kortene ud langs de stiplede linjer. Læg dem i tre bunker: grøn, gul og rød.

Grøn · 1 point Nr. 1

Hvor lang er blyanten?

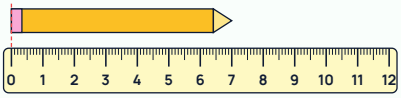

Grøn · 1 point Nr. 2

Hvor lang er viskelæderen?



Grøn · 1 point Nr. 3

Hvor lang er blyanten?

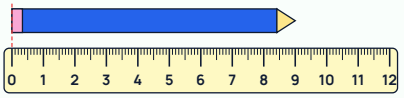

Grøn · 1 point Nr. 4

Hvor lang er limstiften?

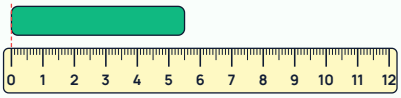

Grøn · 1 point Nr. 5

Hvor lang er blyanten?

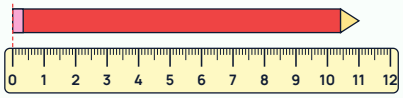

Grøn · 1 point Nr. 6

Hvor lang er kridtet?

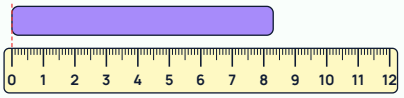

Grøn · 1 point Nr. 7

Hvor meget saft er der i målebægeret?

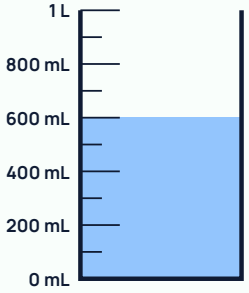

Grøn · 1 point Nr. 8

Hvor meget saft er der i målebægeret?

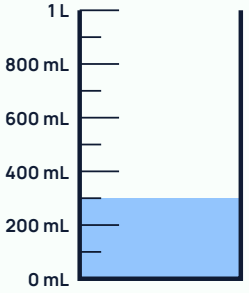

Grøn · 1 point Nr. 9

Hvor meget saft er der i målebægeret?

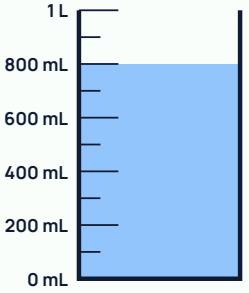

Grøn · 1 point Nr. 10

Hvor meget saft er der i målebægeret?

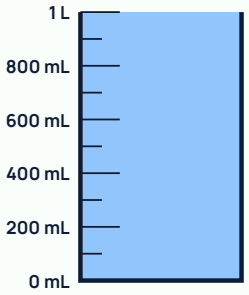

Grøn · 1 point Nr. 11

Hvor meget saft er der i målebægeret?

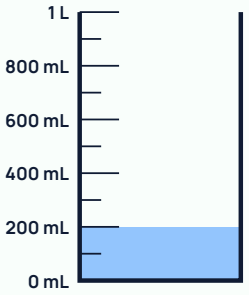

Grøn · 1 point Nr. 12

Hvad vejer et æble?
150 g eller 150 kg?



Grøn · 1 point Nr. 13

Hvor lang er en bus?
12 m eller 12 cm?



Grøn · 1 point Nr. 14

Hvor meget vand er der i en spand?
10 L eller 10 mL?



Grøn · 1 point Nr. 15

Hvor langt er der til byen?
5 km eller 5 m?



Grøn · 1 point Nr. 16

Hvor længe varer et frikvarter?
15 min eller 15 timer?



Grøn · 1 point Nr. 17

Hvor lang tid går der fra kl. 8.00 til kl. 8.45?

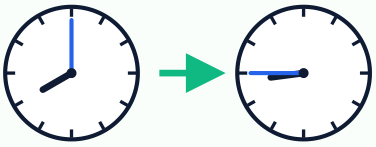

Grøn · 1 point Nr. 18

Hvor lang tid går der fra kl. 9.00 til kl. 9.30?

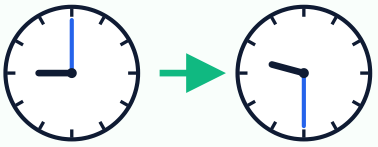

Grøn · 1 point Nr. 19

Hvor lang tid går der fra kl. 13.00 til kl. 15.00?



Grøn · 1 point Nr. 20

Hvor lang tid går der fra kl. 7.30 til kl. 8.10?



Gul · 2 point Nr. 21

Bordet er 2 m langt. Hvor mange cm er det?



Gul · 2 point Nr. 22

Blyanten er 15 cm. Hvor mange mm er det?

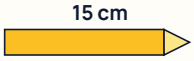

Gul · 2 point Nr. 23

Vejen til byen er 3 km. Hvor mange meter er det?



Gul · 2 point Nr. 24

Hoppetovet er 250 cm. Hvor mange meter er det?



Gul · 2 point Nr. 25

Posen med kartofler vejer 2 kg. Hvor mange gram er det?



Gul · 2 point Nr. 26

Smørret vejer 500 g. Hvor mange kg er det?



Gul · 2 point Nr. 27

Der er 1 L mælk i kartonen. Hvor mange dL er det?



Gul · 2 point Nr. 28

Flasken har 1,5 L sodavand. Hvor mange mL er det?



Gul · 2 point Nr. 29

Glasset har 2 dL saft. Hvor mange mL er det?



Gul · 2 point Nr. 30

Filmen varer 2 timer. Hvor mange minutter er det?



Gul · 2 point Nr. 31

Fodboldkampen varer 90 min. Hvor mange timer og minutter er det?



Gul · 2 point Nr. 32

Løbet er 1.500 m. Hvor mange km er det?



Gul · 2 point Nr. 33

Snoren er 4 m 20 cm. Hvor mange cm er det?

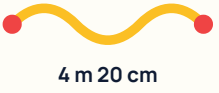

Gul · 2 point Nr. 34

Hunden vejer 12 kg 500 g. Hvor mange gram er det?



Gul · 2 point Nr. 35

Spanden har 5 L vand. Hvor mange dL er det?



Gul · 2 point Nr. 36

Hvor mange minutter er en halv time?



Gul · 2 point Nr. 37

Viskelæderet er 60 mm. Hvor mange cm er det?

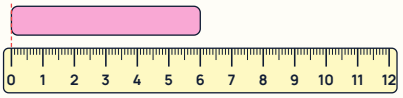

Gul · 2 point Nr. 38

Hvor mange minutter er et kvarter?



Gul · 2 point Nr. 39

Posen med mel vejer 3.000 g. Hvor mange kg er det?



Gul · 2 point Nr. 40

Kartonen har 500 mL juice. Hvor mange liter er det?



Rød · 3 point Nr. 41

Find omkredsen af haven.



Rød · 3 point Nr. 42

Find omkredsen af kvadratet.

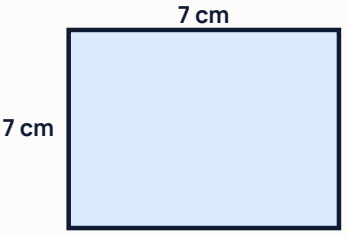

Rød · 3 point Nr. 43

Ali har en snor på 1 m 20 cm og en på 80 cm. Hvor lange er de tilsammen?



Rød · 3 point Nr. 44

Der er 3 poser slik. Hver pose vejer 250 g. Hvor meget vejer de tilsammen?



Rød · 3 point Nr. 45

Du har 1 L saft og hælder op i glas med 200 mL. Hvor mange glas kan du fylde?



Rød · 3 point Nr. 46

Filmen starter kl. 17.30 og varer 1 time 45 min. Hvornår slutter den?



Rød · 3 point Nr. 47

Emma løber 5 gange rundt på banen. Hvor langt løber hun i alt?



Rød · 3 point Nr. 48

Der er 2 kg mel. Mor bruger 750 g til en kage. Hvor meget mel er der tilbage?

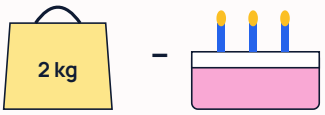

Rød · 3 point Nr. 49

En snor på 3 m klippes i stykker på 50 cm. Hvor mange stykker bliver der?



Rød · 3 point Nr. 50

Find omkredsen af trekanten.

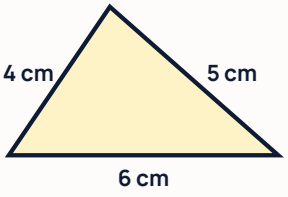

Rød · 3 point Nr. 51

Bussen kører kl. 8.40. Turen tager 35 min. Hvornår er bussen fremme?

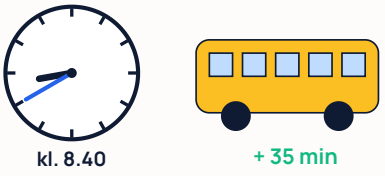

Rød · 3 point Nr. 52

4 kg sukker skal i poser med 500 g. Hvor mange poser bliver det?

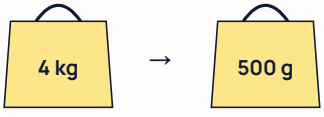

Rød · 3 point Nr. 53

Akvariet skal have 20 L vand. Spanden kan rumme 4 L. Hvor mange spande skal der til?



Rød · 3 point Nr. 54

Der skal hegn hele vejen rundt om haven. Hvor mange meter hegn skal der bruges?

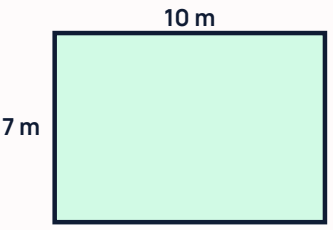

Rød · 3 point **Nr. 55**

Kanden har 1,5 L saft. Du hælder 3 glas med 3 dL. Hvor meget er der tilbage?



Rød · 3 point **Nr. 56**

Ali er 1 m 42 cm høj. Bo er 1 m 35 cm. Hvor meget højere er Ali?

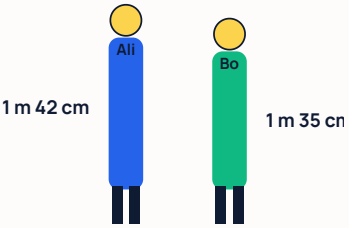

Rød · 3 point **Nr. 57**

Toget kører kl. 14.50 og er fremme kl. 16.20. Hvor lang tid tager turen?



Rød · 3 point **Nr. 58**

Sara cykler 2 km 300 m til stranden og 1 km 900 m videre til isbutikken. Hvor langt cykler hun?



Rød · 3 point **Nr. 59**

Hunden vejer 12 kg. Katten vejer 4 kg 500 g. Hvor meget tungere er hunden?



Rød · 3 point **Nr. 60**

Mads træner 45 min 4 gange om ugen. Hvor mange timer er det?



Måle-stafet

4. klasse · Længde, vægt, rumfang og tid · Dommerark med facit

Nr.	Grøn (1 point)	Nr.	Gul (2 point)	Nr.	Rød (3 point)
1	7 cm	21	200 cm	41	20 m
2	4 cm	22	150 mm	42	28 cm
3	9 cm	23	3.000 m	43	2 m (200 cm)
4	5 cm 5 mm = 55 mm	24	2 m 50 cm = 2,5 m	44	750 g
5	11 cm	25	2.000 g	45	5 glas
6	8 cm 3 mm = 83 mm	26	0,5 kg (et halvt kg)	46	kl. 19.15
7	600 mL	27	10 dL	47	2.000 m = 2 km
8	300 mL	28	1.500 mL	48	1.250 g = 1 kg 250 g
9	800 mL	29	200 mL	49	6 stykker
10	1.000 mL = 1 L	30	120 min	50	15 cm
11	200 mL = 2 dL	31	1 time 30 min	51	kl. 9.15
12	150 g	32	1 km 500 m = 1,5 km	52	8 poser
13	12 m	33	420 cm	53	5 spande
14	10 L	34	12.500 g	54	34 m
15	5 km	35	50 dL	55	6 dL = 600 mL
16	15 min	36	30 min	56	7 cm
17	45 min	37	6 cm	57	1 time 30 min
18	30 min	38	15 min	58	4 km 200 m = 4.200 m
19	2 timer	39	3 kg	59	7 kg 500 g = 7.500 g
20	40 min	40	0,5 L (en halv liter)	60	180 min = 3 timer

Måle-stafet

4. klasse · Længde, vægt, rumfang og tid · Pointtavle

Skriv holdenes navne. Sæt en streg for hvert kort: grøn = 1 point, gul = 2 point, rød = 3 point.

Hold	Grøn (1)	Gul (2)	Rød (3)	Point i alt

Regel: Holdet skriver en mellemregning på kladdepapir, fx 2 m = 200 cm eller 17.30 + 1 time 45 min = 19.15. Dommeren tjekker svaret på dommerarket.