Fra streger til søjler

1. klasse · Statistik og sandsynlighed · Tæl og lav et søjlediagram

Navn: _____ Klasse: _____

Husk: Hver streg er ét barn. Tæl stregerne. Søjlen skal gå op til det tal.

Eksempel: Klassens yndlingsfrugt

Børnene har stemt om den frugt, de bedst kan lide. Hver streg er ét barn. Vi tæller stregerne og tegner en søjle for hver frugt.

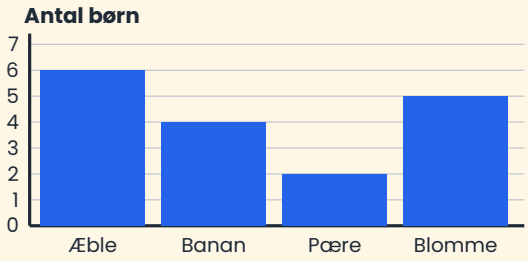

Stregerne:

Æble 𝍸 |

Banan 𝍸

Pære ||

Blomme 𝍸

6 streger giver en søjle op til 6.

- Æble har 6 streger. Søjlen går op til 6.
- Den højeste søjle er æble. Den laveste er pære.

Svar: Flest kan lide æbler. Færrest kan lide pærer.

Del A · Øv dig ★☆☆

Diagrammet viser børnenes kæledyr. Hvor mange børn har hvert dyr?

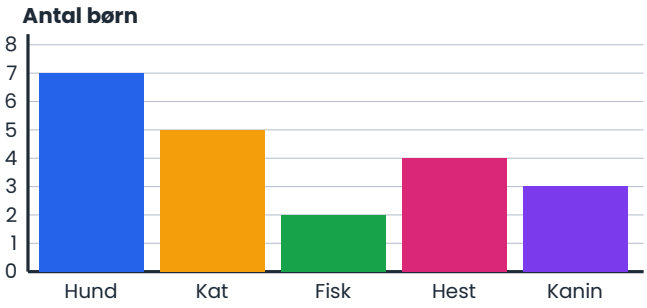

Hund: ___	Kat: ___	Fisk: ___
Hest: ___	Kanin: ___	Flest har en: _____
Færrest har en: _____		

Del B · Brug det ★★☆

Børnene har stemt om deres yndlingsfarve. Hver streg er ét barn.

Rød	𝍸
Blå	𝍸 |||
Grøn	|||
Gul	𝍸 |

B1. Tæl stregerne. Tegn søjlerne i diagrammet.

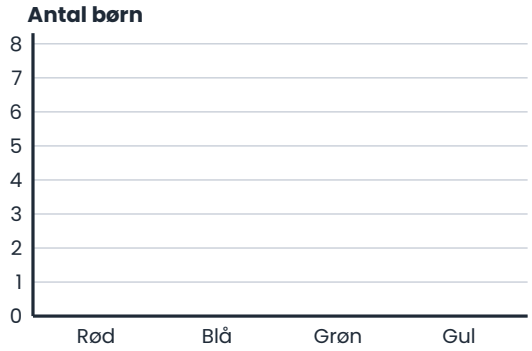

B2. Hvor mange flere har valgt blå end grøn? ____

Del C · Udfordring ★★★

Spørg 6 børn: "Is, kage eller frugt?" Sæt en streg for hvert svar.

	Streger	Antal
Is		
Kage		
Frugt		

C1. Tegn søjlerne for din optælling.



C2. Se på Del A. Emma får en kat. Hvor høj bliver søjlen for kat nu? ____

Find flere opgaver på **mattenemt.dk** under dit klassetrin.

© 2026 Mattenemt.dk. Må kopieres til brug i egen undervisning.