Brug begreberne

Elevark 4.–6. klasse · Navn: _____

Eksempel

Find omkreds og areal af et rektangel, der er 6 cm langt og 4 cm bredt.
Omkreds (rundt om): 6 + 4 + 6 + 4 = 20 cm
Areal (inde i): 6 · 4 = 24 cm²
Svar: Omkredsen er 20 cm, og arealet er 24 cm².

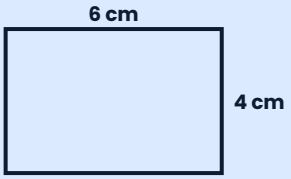

Øv dig

1 Figuren har 8 felter. 3 er farvet. Skriv brøken. Hvad er tæller og nævner?

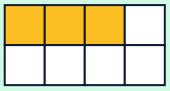

.....

.....

2 Stangen er delt i 10 dele. 7 er farvet. Skriv det som brøk og som decimaltal.



.....

3 Find omkredsen af rektanglet.

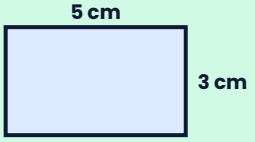

.....

4 Tallene på prikdiagrammet er 3, 3, 5, 8 og 9. Find typetal og median.



.....

.....

 © 2026 Mattenemt.dk. Må kopieres til brug i egen undervisning.

Brug det

5 En trøje koster 80 kr. Der er 25 % rabat. Hvor meget er rabatten, og hvad koster trøjen nu?

80 kr.
25 % rabat

6 Find rumfanget af kassen.

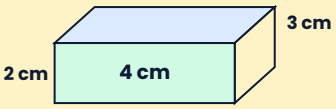

7 Skriv alle faktorer i 12. Brug prikkerne som hjælp. Hvilke af tallene 12, 13, 15 og 17 er primtal?

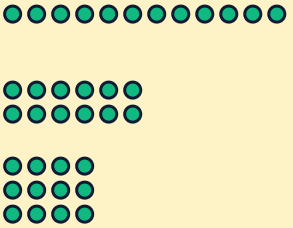

8 Det er -4 °C. Så stiger temperaturen til 3 °C. Hvor mange grader steg den?

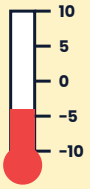

nu -4 °C
så 3 °C

Udfordring

9 Fire tal har gennemsnittet 7. Tre af tallene er 5, 6 og 9. Hvad er det fjerde tal?

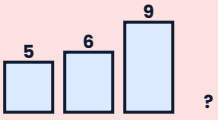

10 På et kort i målestok 1 : 50.000 er der 4 cm mellem to byer. Hvor langt er der i virkeligheden? Skriv i km.



4 cm på kortet

målestok 1 : 50.000

Hvor langt er det i virkeligheden?

11 Tegn et rektangel med omkreds 12 cm og areal 8 cm². Skriv længde og bredde.

12 Forklar med dine egne ord og en tegning: Hvad er forskellen på omkreds og areal?