1.–2. klasse · Tiervenner og tal til 20 · Stationskort

Tiervenner på tre stationer

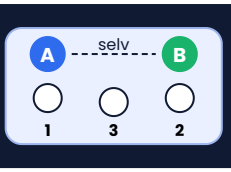

Eksempel

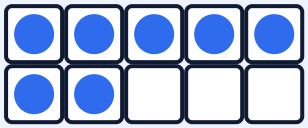

Hvor mange mangler, så der er 10?

Der er 7 prikker.
Der er 3 tomme felter.
7 + 3 = 10

Svar: 7 og 3 er tiervenner.

Øv dig

1 Hvor mange mangler, så der er 10?

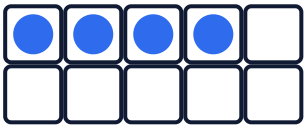

.....

2 Hvor mange mangler, så der er 10?

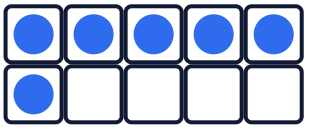

.....

3 Hvor mange mangler, så der er 10?

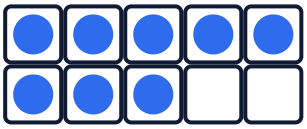

.....

4 Hvor mange mangler, så der er 10?



.....

Brug det

5 Du har 6 kr. En is koster 10 kr. Hvor mange kroner mangler du?



.....

6 Der skal være 10 æbler i kurven. Der ligger 2. Hvor mange skal du lægge i?

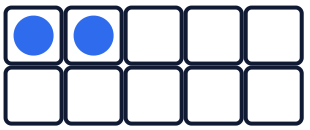

.....

 © 2026 Mattenemt.dk. Må kopieres til brug i egen undervisning.

1.–2. klasse · Tiervenner og tal til 20 · Stationskort

Tiervenner på tre stationer

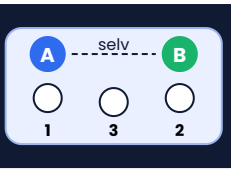

Udfordring

7 2 + 3 + ___ = 10

.....

8 23 + ___ = 30

.....

9 Skriv alle tiervenner. Hvor mange par er der?

.....

.....

.....

 © 2026 Mattenemt.dk. Må kopieres til brug i egen undervisning.