Negative tal-ræs: spilleplade

6.–7. klasse · klip ikke · læg pladen midt på bordet



Start og mål

Alle starter i **kælderen på −25** (lige før feltet −24). Målet er **25**. Hurtig version: start på 10.

Lander du på ★, trækker du et chancekort.

Tip: print pladen i A3, eller sæt to A4-print sammen. Brug mønter eller viskelædere som brikker.

© 2026 Mattenemt.dk · Må kopieres til brug i egen undervisning · mattenemt.dk

Grøn · 2 felter

Hvor mange grader viser termometret?

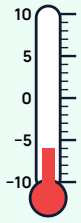

Svar: −6

Grøn · 2 felter

Hvor mange grader viser termometret?

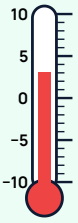

Svar: 3

Grøn · 2 felter

Hvor mange grader viser termometret?



Svar: −2

Grøn · 2 felter

Hvor mange grader viser termometret?



Svar: −9

Grøn · 2 felter

Hvor mange grader viser termometret?

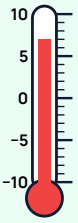

Svar: 7

Grøn · 2 felter

Det er −4 °C. Temperaturen stiger 7 grader. Hvad er temperaturen nu?



Svar: 3

Grøn · 2 felter

Det er −1 °C. Temperaturen falder 5 grader. Hvad er temperaturen nu?

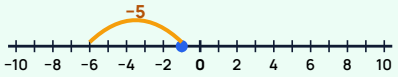

Svar: −6

Grøn · 2 felter

Det er 2 °C. Temperaturen falder 6 grader. Hvad er temperaturen nu?

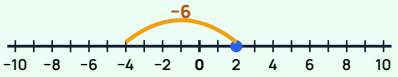

Svar: −4

Grøn · 2 felter

Det er −8 °C. Temperaturen stiger 3 grader. Hvad er temperaturen nu?



Svar: −5

Grøn · 2 felter

Det er −3 °C. Temperaturen stiger 9 grader. Hvad er temperaturen nu?

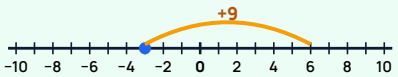

Svar: 6

Grøn · 2 felter

Hvilket tal er mindst: −8 eller −3?

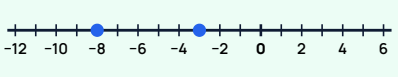

Svar: −8

Grøn · 2 felter

Hvilket tal er mindst: −1 eller −7?



Svar: −7

Grøn · 2 felter

Hvilket tal er mindst: 4 eller −5?

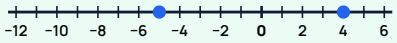

Svar: −5

Grøn · 2 felter

Hvilket tal er mindst: −12 eller −2?

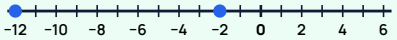

Svar: −12

Grøn · 2 felter

Hvilket tal er mindst: 0 eller −4?

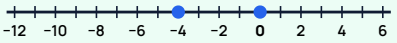

Svar: −4

Grøn · 2 felter

−5 + 2 = ?

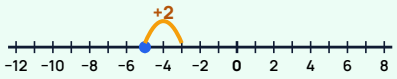

Svar: −3

Grøn · 2 felter

3 + (−7) = ?

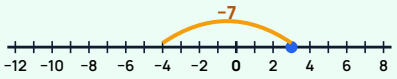

Svar: −4

Grøn · 2 felter

−2 + 6 = ?

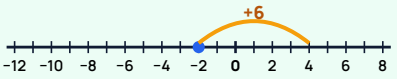

Svar: 4

Grøn · 2 felter

−9 + 4 = ?

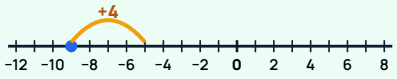

Svar: −5

Grøn · 2 felter

6 + (−10) = ?

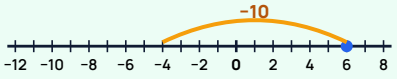

Svar: −4

Gul · 3 felter

−3 − 5 = ?

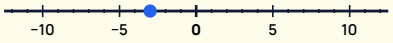

Svar: −8

Gul · 3 felter

−7 − (−2) = ?

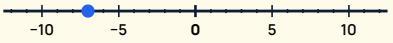

Svar: −5

Gul · 3 felter

4 − (−6) = ?

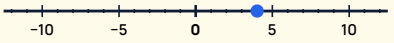

Svar: 10

Gul · 3 felter

−1 − (−9) = ?

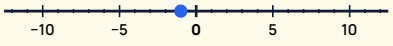

Svar: 8

Gul · 3 felter

2 − 8 = ?

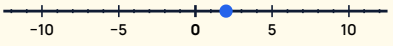

Svar: −6

Gul · 3 felter

Saldoen er −150 kr. Der kommer 200 kr ind. Hvad er saldoen nu?

Kontoudtog	
Saldo	−150 kr
Indsat	200 kr

Svar: 50

Gul · 3 felter

Saldoen er −40 kr. Der trækkes 60 kr ud. Hvad er saldoen nu?

Kontoudtog	
Saldo	−40 kr
Hævet	−60 kr

Svar: −100

Gul · 3 felter

Saldoen er 80 kr. Der trækkes 230 kr ud. Hvad er saldoen nu?

Kontoudtog	
Saldo	80 kr
Hævet	−230 kr

Svar: −150

Gul · 3 felter

Saldoen er −275 kr. Der kommer 300 kr ind. Hvad er saldoen nu?

Kontoudtog	
Saldo	−275 kr
Indsat	300 kr

Svar: 25

Gul · 3 felter

Saldoen er −90 kr. Der kommer 45 kr ind. Hvad er saldoen nu?

Kontoudtog	
Saldo	−90 kr
Indsat	45 kr

Svar: −45

Gul · 3 felter

Elevatoren kører fra etage −2 til etage 5. Hvor mange etager kører den?

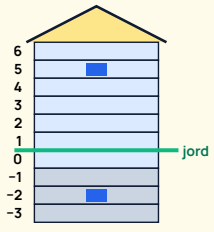

Svar: 7

Gul · 3 felter

Elevatoren kører fra etage 4 til etage −3. Hvor mange etager kører den?

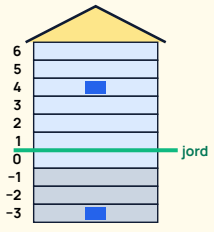

Svar: 7

© 2026 Mattenemt.dk · Må kopieres til brug i egen undervisning · mattenemt.dk

Gul · 3 felter

Elevatoren kører fra etage −3 til etage 2. Hvor mange etager kører den?

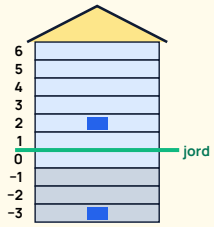

Svar: 5

Gul · 3 felter

Elevatoren kører fra etage 6 til etage −1. Hvor mange etager kører den?

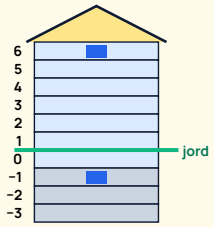

Svar: 7

Gul · 3 felter

Elevatoren kører fra etage −1 til etage 3. Hvor mange etager kører den?

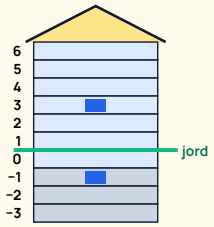

Svar: 4

Gul · 3 felter

Hvor mange grader er der mellem −6 °C og 4 °C?

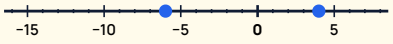

Svar: 10

Gul · 3 felter

Hvor mange grader er der mellem −11 °C og −3 °C?

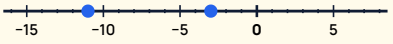

Svar: 8

Gul · 3 felter

Hvor mange grader er der mellem 5 °C og −8 °C?

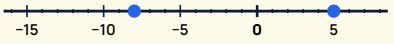

Svar: 13

Gul · 3 felter

Hvor mange grader er der mellem −15 °C og 2 °C?

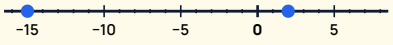

Svar: 17

Gul · 3 felter

Hvor mange grader er der mellem −4 °C og −13 °C?

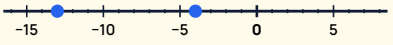

Svar: 9

Rød · 4 felter

$(-4) \cdot 3 = ?$



Svar: −12

Rød · 4 felter

$(-6) \cdot (-5) = ?$

Svar: 30

Rød · 4 felter

$7 \cdot (-3) = ?$

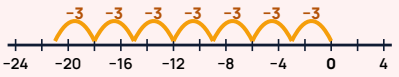

Svar: −21

Rød · 4 felter

$(-24) : (-6) = ?$

Svar: 4

Rød · 4 felter

$35 : (-7) = ?$

Svar: −5

Rød · 4 felter

$(-18) : 3 = ?$

Svar: −6

Rød · 4 felter

$(-2) \cdot (-3) + (-5) = ?$

Svar: 1

Rød · 4 felter

$5 \cdot (-2) - (-4) = ?$

Svar: −6

Rød · 4 felter

$-12 + 15 - 8 - (-3) = ?$

Svar: −2

Rød · 4 felter

Middeltemperaturen for 4 dage: −3 °C, 5 °C, −8 °C og 2 °C. Hvad er middeltallet?

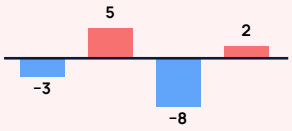

Svar: −1

Rød · 4 felter

En måge flyver 25 m over havet. En dykker er 18 m under havet. Hvor langt er der mellem dem?

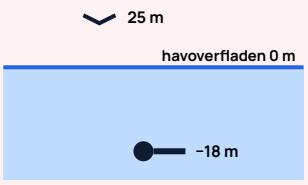

Svar: 43

Rød · 4 felter

Lise skylder 240 kr (saldo −240 kr). Hun betaler 60 kr hver uge. Hvor mange uger går der, før saldoen er 0?

Kontoudtog	
Saldo	−240 kr
Uge 1	60 kr
Uge 2	60 kr

Svar: 4

© 2026 Mattenemt.dk · Må kopieres til brug i egen undervisning · mattenemt.dk · side 6/8

Rød · 4 felter

Om natten var det −7 °C. Kl. 14 var det 6 °C. Hvor mange grader steg temperaturen?

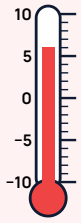

Svar: 13

Rød · 4 felter

Find tallet: ? · (−4) = 28

Svar: −7

Rød · 4 felter

To tal har summen −2 og produktet −15. Hvad er det største af tallene?

Svar: 3

Rød · 4 felter

Temperaturen falder 3 grader i timen. Kl. 18 er den 4 °C. Hvad er den kl. 22?

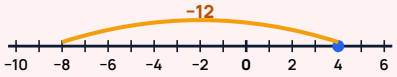

Svar: −8

Rød · 4 felter

$(-3)^2 - 2^2 = ?$

Svar: 5

Rød · 4 felter

Et fly er i 9.000 m højde. Det er −45 °C deroppe og 12 °C på jorden. Hvor mange grader koldere er det oppe?

Svar: 57

Rød · 4 felter

$(-36) : 4 + (-2) \cdot (-5) = ?$

Svar: 1

Rød · 4 felter

Hvad er halvvejs mellem −9 og 5 på tallinjen?

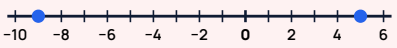

Svar: −2

★ Chancekort

Kold vind!

Temperaturen falder 4 grader. Gå 4 felter tilbage.

★ Chancekort

Solen kommer frem

Gå 3 felter frem.

★ Chancekort

Frostnat

Gå tilbage til det nærmeste felt med et tal i 5-tabellen (fx 10, 5, 0, −5, −10).

★ Chancekort

Varmebølge

Gå 5 felter frem.

★ Chancekort

Elevator ned

Gå 2 felter tilbage.

★ Chancekort

Spejlet

Står du på −1, −2, −3, −4 eller −5? Ryk til det modsatte tal (fx −3 → 3).

★ Chancekort

Dobbelt op

Træk et kort mere nu. Rigtigt svar giver dobbelt så mange felter.

★ Chancekort

Kælderen

Gå 6 felter tilbage, men aldrig under −25.

★ Chancekort

Hjælp en ven

Vælg en spiller. I går begge 2 felter frem.

★ Chancekort

Termometer-quiz

Sig tre tal mellem −10 og 0 i rækkefølge fra mindst til størst. Rigtigt: 2 frem.

★ Chancekort

Tø

Gå 1 felt frem.

★ Chancekort

Glat vej

Stå over næste tur.

© 2026 Mattenemt.dk · Må kopieres til brug i egen undervisning · mattenemt.dk · side 8/8