Tal-tavle-jagt

Spilleplade · 100-tavlen · 1. klasse · 2–4 spillere · 20–30 min

1	2	3	4	5	6	7	8	9	10
11	12	13	14	15	16	17	18	19	20
21	22	23	24	25	26	27	28	29	30
31	32	33	34	35	36	37	38	39	40
41	42	43	44	45	46	47	48	49	50
51	52	53	54	55	56	57	58	59	60
61	62	63	64	65	66	67	68	69	70
71	72	73	74	75	76	77	78	79	80
81	82	83	84	85	86	87	88	89	90
91	92	93	94	95	96	97	98	99	100

Tip: Print i A3 eller laminér. Hver spiller har sin farve af brikker (næste side) eller knapper/LEGO.

Brikker til at klippe ud

20 brikker i hver farve: blå, rød, grøn og gul



Grøn 1

Hvilket tal er det? Find det på tavlen.

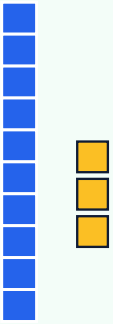

Svar: 13

Grøn 2

Hvilket tal er det? Find det på tavlen.

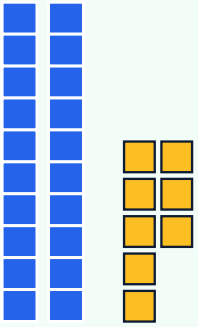

Svar: 28

Grøn 3

Hvilket tal er det? Find det på tavlen.



Svar: 72

Grøn 4

Hvilket tal er det? Find det på tavlen.

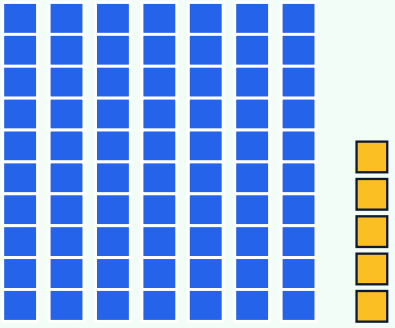

Svar: 75

Grøn 5

Hvilket tal er det? Find det på tavlen.

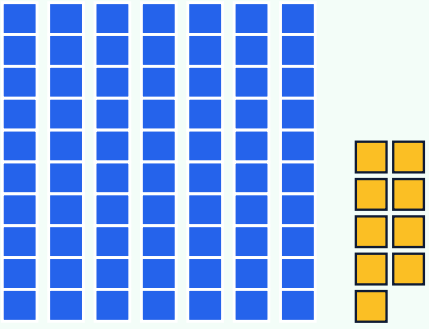

Svar: 79

Grøn 6

Hvilket tal er det? Find det på tavlen.

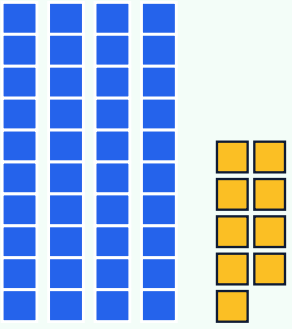

Svar: 49

Grøn 7

Hvilket tal er det? Find det på tavlen.



Svar: 10

Grøn 8

Hvilket tal er det? Find det på tavlen.

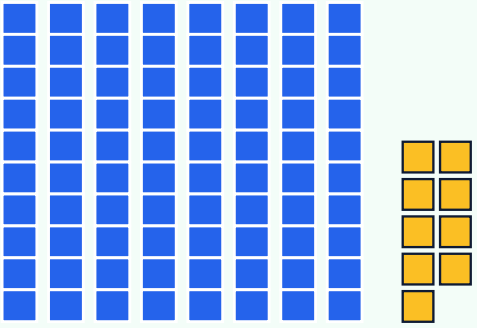

Svar: 89

Grøn 9

Hvilket tal er det? Find det på tavlen.

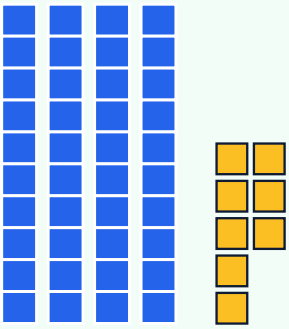

Svar: 48

Grøn 10

Hvilket tal er det? Find det på tavlen.



Svar: 30

Grøn 11

Hvilket tal er det? Find det på tavlen.

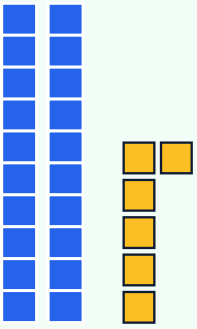

Svar: 26

Grøn 12

Hvilket tal er det? Find det på tavlen.

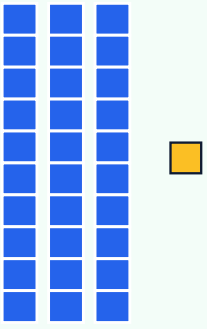

Svar: 31

Grøn 13

Hvilket tal er det? Find det på tavlen.

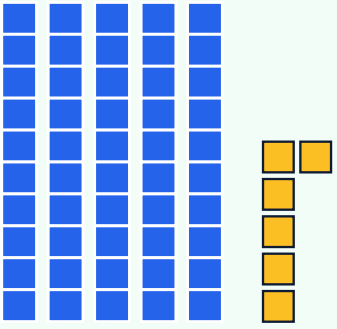

Svar: 56

Grøn 14

Hvilket tal er det? Find det på tavlen.



Svar: 96

Grøn 15

Hvilket tal er det? Find det på tavlen.

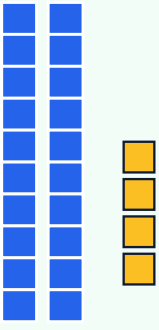

Svar: 24

Grøn 16

Hvilket tal er det? Find det på tavlen.

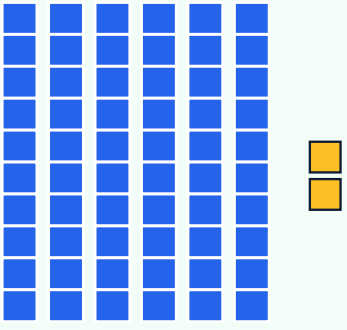

Svar: 62

Grøn 17

Hvilket tal er det? Find det på tavlen.



Svar: 70

Grøn 18

Hvilket tal er det? Find det på tavlen.



Svar: 40

Grøn 19

Hvilket tal er det? Find det på tavlen.

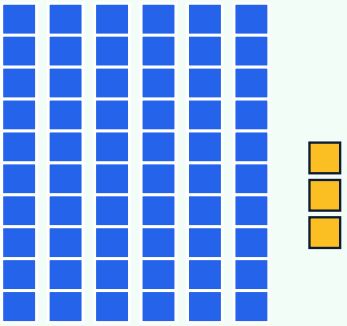

Svar: 63

Grøn 20

Hvilket tal er det? Find det på tavlen.

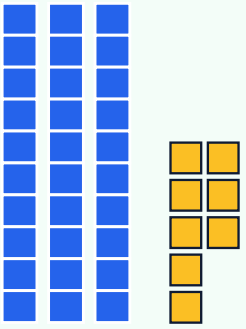

Svar: 38

Gul 1

Gå ned fra 8. Hvilket tal står på ?-feltet?

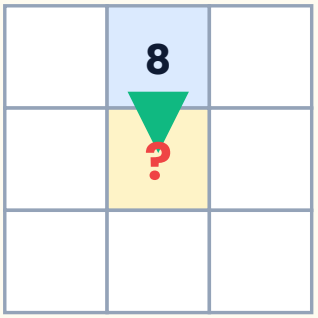

Svar: 18

Gul 2

Gå til venstre fra 56. Hvilket tal står på ?-feltet?

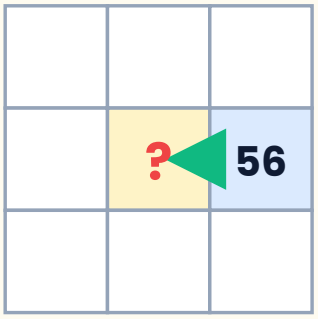

Svar: 55

Gul 3

Gå ned fra 15. Hvilket tal står på ?-feltet?

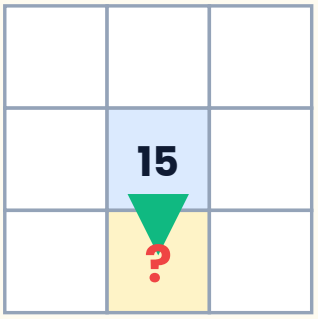

Svar: 25

Gul 4

Gå til venstre fra 68. Hvilket tal står på ?-feltet?

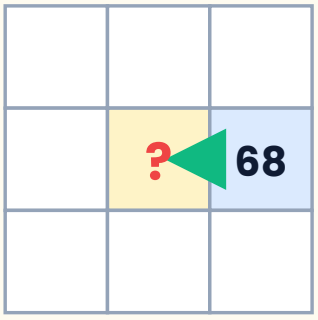

Svar: 67

Gul 5

Gå til højre fra 6. Hvilket tal står på ?-feltet?

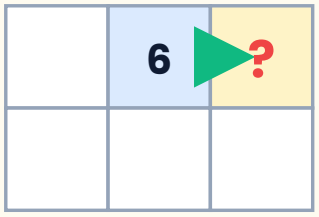

Svar: 7

Gul 6

Gå op fra 94. Hvilket tal står på ?-feltet?

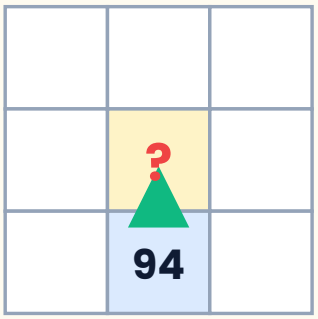

Svar: 84

Gul 7

Gå til højre fra 19. Hvilket tal står på ?-feltet?

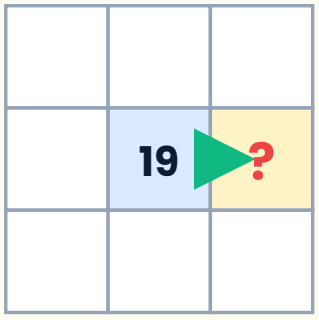

Svar: 20

Gul 8

Gå op fra 93. Hvilket tal står på ?-feltet?

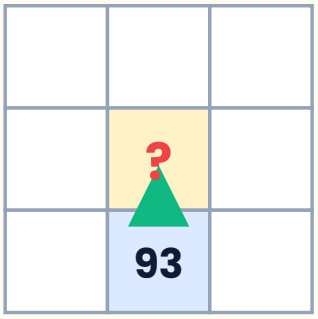

Svar: 83

Gul 9

Gå ned fra 84. Hvilket tal står på ?-feltet?

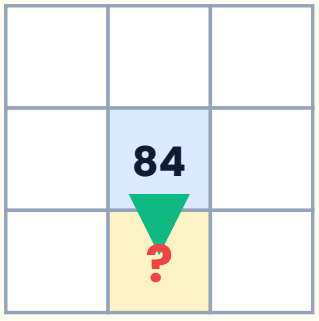

Svar: 94

Gul 10

Gå til højre fra 34. Hvilket tal står på ?-feltet?

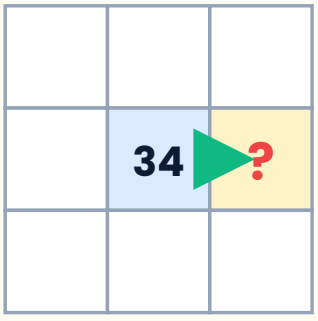

Svar: 35

Gul 11

Gå til venstre fra 4. Hvilket tal står på ?-feltet?

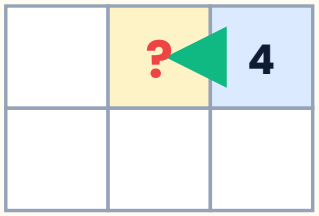

Svar: 3

Gul 12

Gå ned fra 72. Hvilket tal står på ?-feltet?

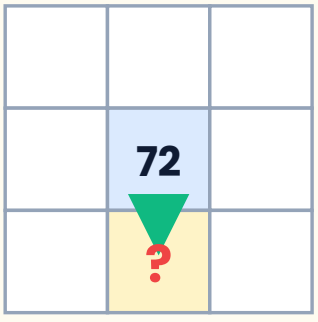

Svar: 82

Gul 13

Gå til højre fra 14. Hvilket tal står på ?-feltet?

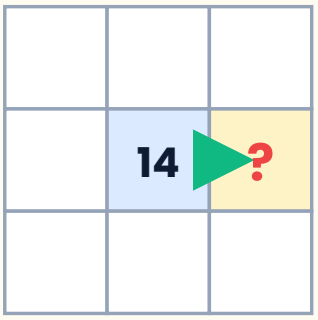

Svar: 15

Gul 14

Gå ned fra 68. Hvilket tal står på ?-feltet?

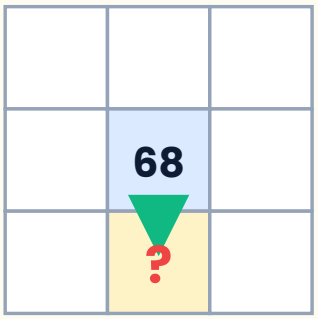

Svar: 78

Gul 15

Gå op fra 43. Hvilket tal står på ?-feltet?

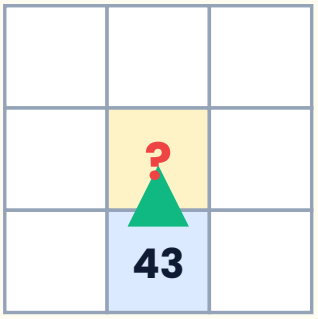

Svar: 33

Gul 16

Gå ned fra 51. Hvilket tal står på ?-feltet?

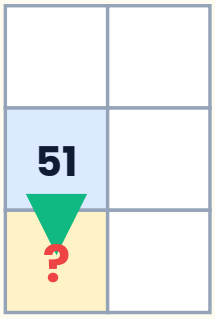

Svar: 61

Gul 17

Gå ned fra 13. Hvilket tal står på ?-feltet?

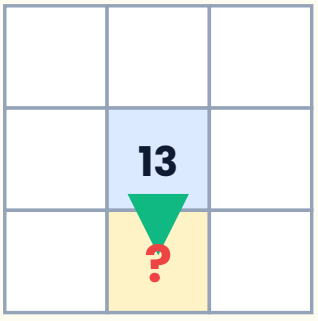

Svar: 23

Gul 18

Gå til venstre fra 17. Hvilket tal står på ?-feltet?

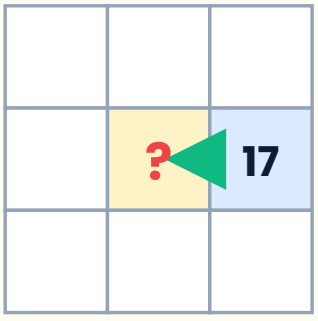

Svar: 16

Gul 19

Gå til venstre fra 10. Hvilket tal står på ?-feltet?

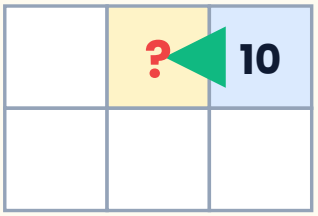

Svar: 9

Gul 20

Gå ned fra 33. Hvilket tal står på ?-feltet?

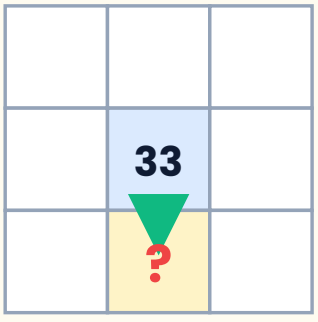

Svar: 43

Rød 1

Start på 66. Gå ↑ → ↑. Hvilket tal står på ?-feltet?

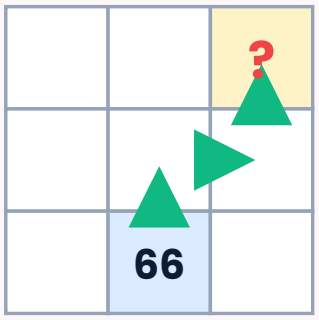

Svar: 47

Rød 2

Start på 8. Gå ↓ →. Hvilket tal står på ?-feltet?

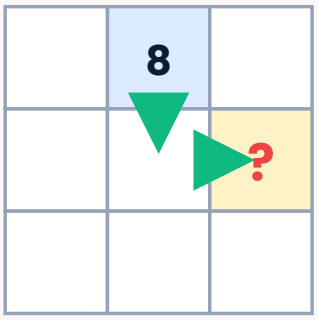

Svar: 19

Rød 3

Start på 85. Gå → ↑. Hvilket tal står på ?-feltet?

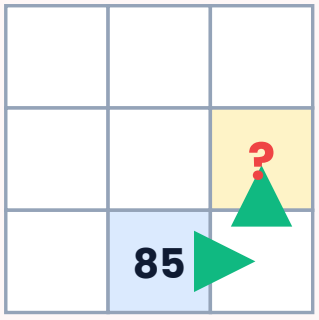

Svar: 76

Rød 4

Start på 18. Gå → ↓ ↓. Hvilket tal står på ?-feltet?

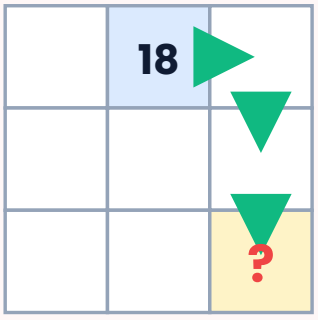

Svar: 39

Rød 5

Start på 89. Gå → ↓. Hvilket tal står på ?-feltet?

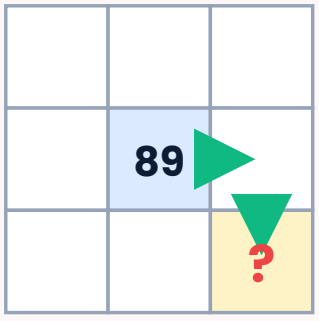

Svar: 100

Rød 6

Start på 39. Gå ↓ ↓ →. Hvilket tal står på ?-feltet?

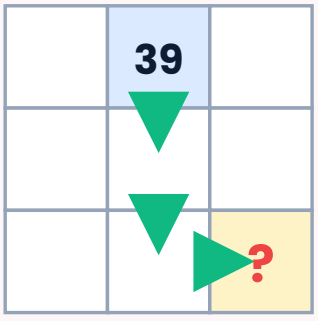

Svar: 60

Rød 7

Start på 24. Gå ↓ ← ←. Hvilket tal står på ?-feltet?

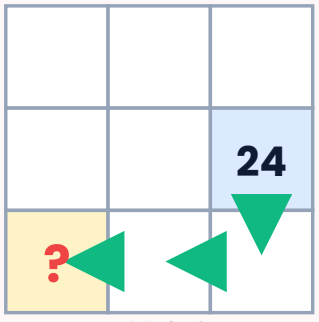

Svar: 32

Rød 8

Start på 27. Gå ↑ → ↑. Hvilket tal står på ?-feltet?



Svar: 8

Rød 9

Start på 69. Gå ↓ ← ↓. Hvilket tal står på ?-feltet?

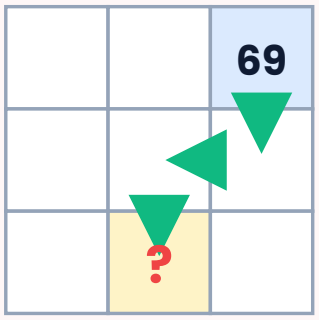

Svar: 88

Rød 10

Start på 58. Gå → → ↑. Hvilket tal står på ?-feltet?

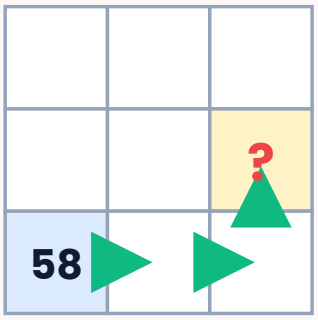

Svar: 50

Rød 11

Start på 45. Gå ↑ →. Hvilket tal står på ?-feltet?

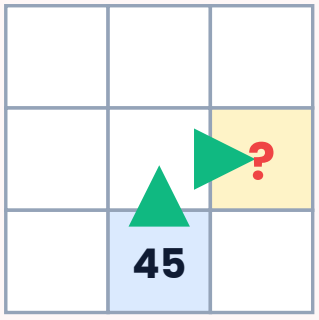

Svar: 36

Rød 12

Start på 35. Gå ↑ → →. Hvilket tal står på ?-feltet?

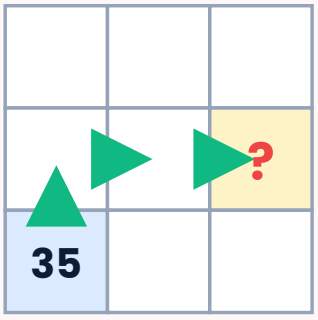

Svar: 27

Rød 13

Start på 75. Gå ← ↑. Hvilket tal står på ?-feltet?

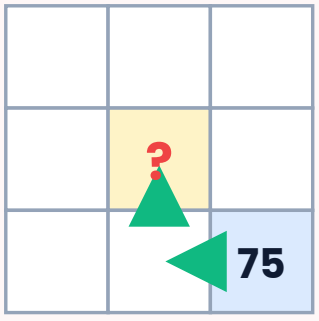

Svar: 64

Rød 14

Start på 82. Gå ↑ →. Hvilket tal står på ?-feltet?

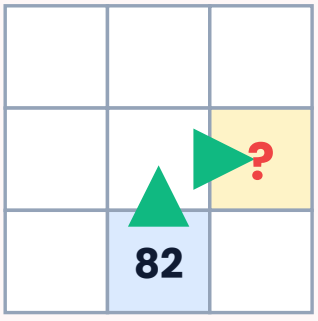

Svar: 73

Rød 15

5 tiere og 19 enere. Hvilket tal?

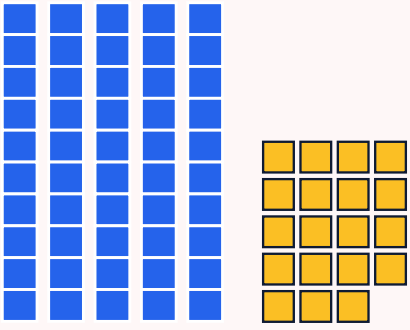

Svar: 69

Rød 16

3 tiere og 12 enere. Hvilket tal?

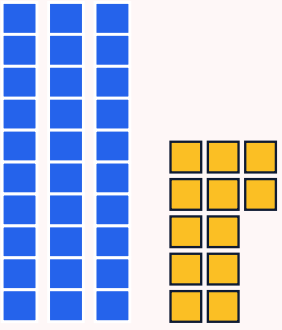

Svar: 42

Rød 17

7 tiere og 17 enere. Hvilket tal?



Svar: 87

Rød 18

4 tiere og 19 enere. Hvilket tal?

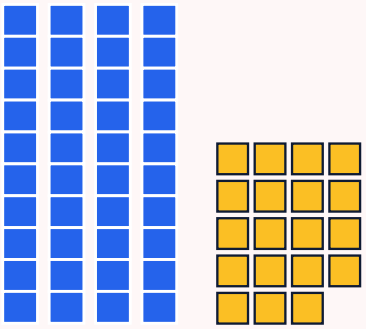

Svar: 59

Rød 19

7 tiere og 15 enere. Hvilket tal?



Svar: 85

Rød 20

2 tiere og 14 enere. Hvilket tal?

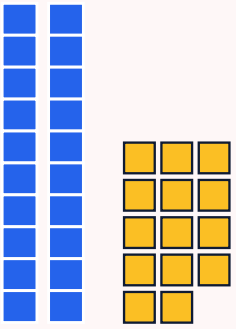

Svar: 34