Tekstopgaver: 5 trin til svaret

1.–3. klasse · Tal og algebra · Tekstopgaver med de 5 trin

Navn: _____ Klasse: _____

Husk: De 5 trin:
1. Læs og fortæl. 2. Find spørgsmålet og tallene. 3. Tegn. 4. Regn. 5. Tjek.

Eksempel: Bolden
Freja har 25 kr. Hun køber en bold til 18 kr. Hvor mange kroner har hun tilbage?

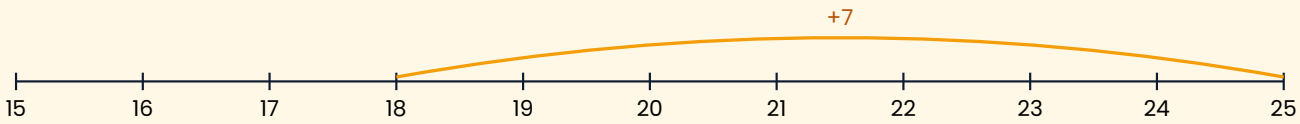

1. Læs og fortæl: Freja køber en bold. Hun får penge tilbage.
2. Spørgsmål: Hvor mange kroner har hun tilbage? Tal: 25 og 18.
3. Tegn: En tallinje fra 18 til 25.
4. Regn: 25 - 18 = 7.
5. Tjek: 7 + 18 = 25. Det passer.

Svar: Freja har 7 kr. tilbage.

Del A · Øv dig ★☆☆

Hvilket regnestykke passer? Sæt ring om det. Regn så.

A1. Der sidder 8 fugle på et tag. 3 fugle flyver væk. Hvor mange fugle sidder der nu?
8 + 3 8 - 3 8 · 3
Svar: _____

A2. Ali har 6 kugler. Han får 7 kugler mere. Hvor mange kugler har han nu?
6 + 7 7 - 6 6 · 7
Svar: _____

A3. Der er 4 tallerkener. Der er 5 jordbær på hver. Hvor mange jordbær er der i alt?
4 + 5 5 - 4 4 · 5



Svar: _____

A4. 12 æbler deles ligeligt i 3 skåle. Hvor mange æbler kommer der i hver skål?
12 - 3 12 : 3 12 + 3
Svar: _____

A5. Streg spørgsmålet under. Sæt ring om tallene. Regn.
Ida har 15 kr. Hun får 10 kr. af sin mormor. Hvor mange kroner har Ida nu?

 © 2026 Mattenemt.dk. Må kopieres til brug i egen undervisning.

Del B · Brug det ★★☆

Brug de 5 trin. Tegn, hvis det hjælper. Skriv regnestykke og svar.

B1. Noah har 34 klistermærker. Maja har 21 klistermærker. Hvor mange flere klistermærker har Noah end Maja?

Regnestykke: _____ Svar: _____

B2. En cykel har 2 hjul. Hvor mange hjul har 7 cykler?

Regnestykke: _____ Svar: _____

B3. Sofia har 50 kr. Hun køber en is til 12 kr. og et blad til 25 kr. Hvor meget har hun tilbage?

Regnestykke: _____ Svar: _____

 © 2026 Mattenemt.dk. Må kopieres til brug i egen undervisning.

B4. I bussen sidder 23 børn. Ved et stoppested står 8 børn af, og 5 børn stiger på. Hvor mange børn er der nu i bussen?



Regnestykke: _____ Svar: _____

B5. Oliver er 8 år. Han har 3 æsker med 10 blyanter i hver. Hvor mange blyanter har han?



Regnestykke: _____ Svar: _____

 © 2026 Mattenemt.dk. Må kopieres til brug i egen undervisning.

Del C · Udfordring ★★★

Tænk dig om. Der kan være mere end én måde.

C1. Lav selv en tekstopgave, hvor svaret er 12. Brug gange.

C2. Lucas og Emma har 20 kugler tilsammen. Emma har 4 kugler flere end Lucas. Hvor mange kugler har hver?

C3. Find fejlen. Freja har 15 kr. Hun har 6 kr. mere end Ali. William regner Alis penge sådan: 15 + 6 = 21. Hvad er rigtigt?