Tekstopgaver 4.–6. klasse

Find regnestykket i teksten

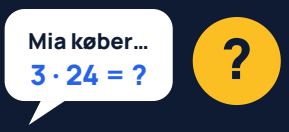

Navn: _____

1	2	3	4	5
Læs og fortæl	Find spørgsmålet og tallene	Tegn	Regn	Tjek

⭐ Eksempel

Opgave: Mia køber 3 boller til 8,50 kr. hver og en juice til 12 kr. Hun betaler med en 50-kroneseddel. Hvor mange penge får hun tilbage?



1. **Læs og fortæl:** Mia køber boller og juice og betaler med en seddel. Hun skal have penge tilbage.
2. **Spørgsmål og tal:** Hvor mange penge får hun tilbage? Tallene er 3 boller, 8,50 kr. pr. bolle, 12 kr. og 50 kr.
3. **Tegn:** Prisskilte for bollerne og juicen og en seddel på 50 kr.
4. **Regn:**
   Bollerne: $3 \cdot 8{,}50 = 25{,}50$ kr.
   Alt, hun køber: $25{,}50 + 12 = 37{,}50$ kr.
   Tilbage: $50 - 37{,}50 = 12{,}50$ kr.
5. **Tjek:** $37{,}50 + 12{,}50 = 50$. Det passer.

Svar: Mia får 12,50 kr. tilbage.

 © 2026 Mattenemt.dk. Må kopieres til brug i egen undervisning.

✏️ Øv dig – ét regnestykke

1 Mads har 4 poser slik. Der er 250 g i hver pose. Hvor mange gram slik har han i alt? Skriv også svaret i kg.



Svar: _____

2 I 6.A er der 24 elever. 3/4 af eleverne cykler i skole. Hvor mange elever cykler i skole?



Svar: _____

3 Et bånd er 2,4 m langt. Der klippes 0,75 m af. Hvor langt er resten af båndet?

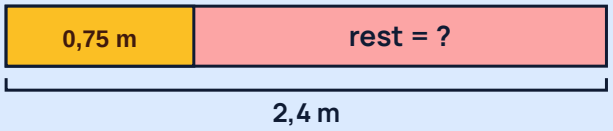

Svar: _____

4 6 børn deler en regning på 72 kr. ligeligt. Hvor mange kroner skal hvert barn betale?

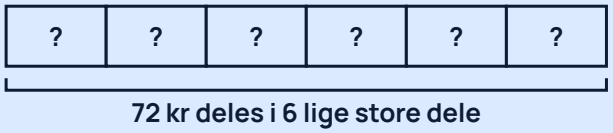

Svar: _____

 © 2026 Mattenemt.dk. Må kopieres til brug i egen undervisning.

🛠️ Brug det – flere trin

5 Fire børn går i biografen. En billet koster 65 kr. To af børnene køber også popcorn til 28 kr. Hvad koster det i alt?

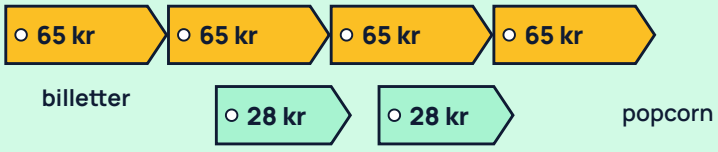

Svar: _____

6 En flaske rummer 1,5 L saft. Hvert glas rummer 0,25 L. Hvor mange glas kan man fylde fra flasken? Fire personer drikker hver et glas. Hvor mange liter er der tilbage?

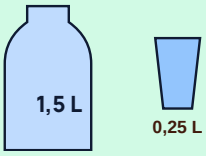

Svar: _____

7 Et cykelløb er 12,5 km langt. Lisa har cyklet 3/5 af ruten. Hvor mange kilometer har hun tilbage?



Svar: _____

8 En legeplads er 6,5 m lang og 4 m bred. Der skal sættes hegn hele vejen rundt. Hegn koster 35 kr. pr. meter. Hvad koster hegnet?

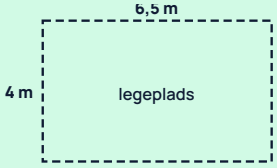

Svar: _____

 © 2026 Mattenemt.dk. Må kopieres til brug i egen undervisning.

🚀 Udfordring

9 Hos kiosken sælges slik i poser à 100 g. En pose koster 7,50 kr. Emil har 40 kr. Hvor mange poser kan han højst købe, og hvor mange gram er det? Hvor mange penge har han tilbage?



Svar: _____

10 Sara vil købe en cykel til 1.200 kr. Hun har sparet 3/8 af prisen. Hun lægger 50 kr. til side hver uge. Hvor mange uger går der, før hun kan købe cyklen?

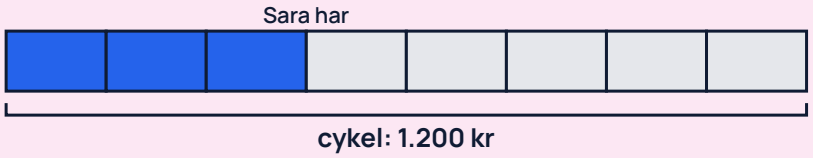

Svar: _____

 © 2026 Mattenemt.dk. Må kopieres til brug i egen undervisning.