Tid: tidsforskelle og køreplaner

5. klasse · Geometri og måling

Navn: _____

Klasse: _____

Eksempel **Emma tager bussen**



7.45 8.20

Emma tager bussen kl. 7.45. Hun er i skole kl. 8.20. Hvor lang tid tager turen?



Hop til hel time: fra 7.45 til 8.00 er 15 min. Hop videre: fra 8.00 til 8.20 er 20 min.
Læg sammen: 15 min + 20 min = 35 min.
Turen tager 35 minutter.

Husk: 1 time = 60 min · 1 min = 60 s · 1 døgn = 24 timer · 1 uge = 7 dage. Hop altid til en hel time, så er det let. Klokken 7.45 + 35 min er **ikke** 7.80: der er kun 60 minutter i en time.

Øv dig

1 Hvad er klokken? Skriv tiden digitalt, før kl. 12 (fx 7.05).



kl. _____



kl. _____



kl. _____



kl. _____

2 Hvor lang tid går der? Tegn hop på tidslinjen.

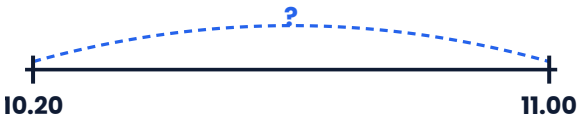

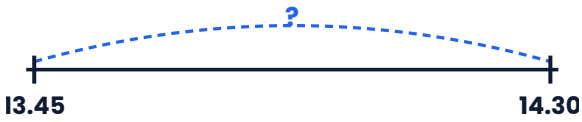

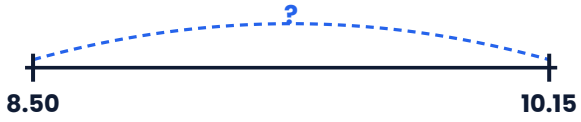

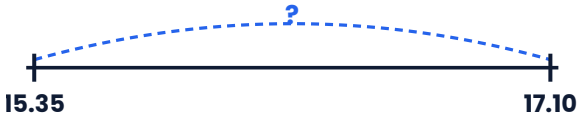

3 Omregn.

2 timer = _____ min	90 min = ____ t ____ min
3 døgn = _____ timer	150 s = ____ min ____ s

Brug det

4 

Køreplan for bus 5A

Skolen	7.52	8.22	8.52
Torvet	8.03	8.33	9.03
Svømmehallen	8.11	8.41	9.11
Stationen	8.20	8.50	9.20

a) Hvor lang tid tager bussen fra Skolen til Stationen?

.....

b) Ali skal være ved Svømmehallen før kl. 8.45. Hvilken er den seneste bus, han kan tage fra Skolen?

.....

.....

c) Hvor lang tid er der fra Torvet til Svømmehallen? .....

5

BIOGRAF
Start kl. 18.30
Varighed 1 t 50 min

Filmen starter kl. 18.30 og varer 1 time og 50 minutter. Hvornår slutter den?

.....

6

NOVEMBER 2026

Ma	Ti	On	To	Fr	Lø	Sø
						1
2	3	4	5	6	7	8
9	10	11	12	13	14	15
16	17	18	19	20	21	22
23	24	25	26	27	28	29
30						

I dag er mandag den 9. november (grøn). Klassens tur er den 24. november (gul).

a) Hvor mange dage er der til turen? .....

b) Hvilken ugedag er turen? .....

c) Skriv svaret i a) som uger og dage. .....

7

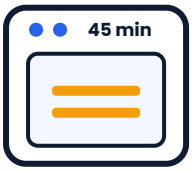

Lasagnen skal være 45 minutter i ovnen. Den skal være færdig kl. 18.00. Hvornår skal den i ovnen?

.....

Udfordring

8 

Toget kører fra Odense kl. 9.47 og er i København kl. 11.02.

a) Hvor lang tid tager turen? .....

b) Toget er 18 min forsinket. Hvornår kommer det? .....

c) Hvor lang blev turen så? .....

Plads til tidslinje:

.....

.....

9 Sara løber 3 omgange. Urene viser tiden for hver omgang (min:s).



a) Hvor lang tid tog hun i alt? .....

b) Hvor lang tid tog en omgang i gennemsnit? .....

Plads til udregning:

.....

.....

10 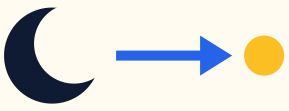

Bo sover fra kl. 21.15 til kl. 6.45.

21.15 **6.45**

a) Hvor mange timer og minutter sover han? .....

b) Hvor mange minutter er det? .....

Plads til udregning:

.....

.....

Facit ligger i Lærerområdet på mattenemt.dk. Til forældre: spørg om tid i hverdagen: „Hvor lang tid er der til aftensmaden?“

© 2026 Mattenemt.dk. Må kopieres til brug i egen undervisning.